2018학년도 11월 고2 전국연합학력평가 문제지

직업탐구 영역(회계 원리)

제 4 교시 | 성명 | | 수험번호 | | | | | 2 | | | | |

6. 다음은 ○○(주)가 △△은행으로부터 전송받은 문자 메시지이다. ○○(주)가 추가로 제출해야 할 결산 보고서로 옳은 것을 <보기>에서 고른 것은?

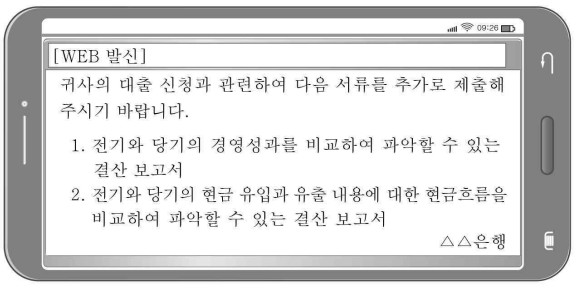

〈보 기〉

ㄱ. 자본변동표 ㄴ. 손익계산서
ㄷ. 현금흐름표 ㄹ. 재무상태표

① ㄱ, ㄴ ② ㄱ, ㄷ ③ ㄴ, ㄷ
④ ㄴ, ㄹ ⑤ ㄷ, ㄹ

7. 다음은 개인기업인 ○○상점의 제4기 자본금과 손익 계정이다. 이를 통해 알 수 있는 내용으로 옳은 것을 <보기>에서 고른 것은? [3점]

자본금

12/31	×××	750,000	1/ 1	×××	×××
			12/31	손 익	×××
		×××			×××

손익

12/31	매 입	200,000	12/31	매 출	500,000
〃	급 여	100,000			
〃	보 험 료	70,000			
〃	이 자 비 용	80,000			
〃	×××	50,000			
		500,000			500,000

〈보 기〉

ㄱ. 당기순손실은 ₩50,000이다.
ㄴ. 당기의 영업이익은 ₩130,000이다.
ㄷ. 당기의 매출총이익은 ₩300,000이다.
ㄹ. 제4기의 기초자본금은 ₩800,000이다.

① ㄱ, ㄴ ② ㄱ, ㄷ ③ ㄴ, ㄷ
④ ㄴ, ㄹ ⑤ ㄷ, ㄹ

8. 다음은 △△(주)의 관리 비용 절감에 관한 기사이다. 이에 나타난 당기의 거래 내용을 분개할 때 차변 계정과목으로 옳은 것은? (단, 회계기간은 매년 1월 1일부터 12월 31일까지이다.)

> △△(주)는 2017년도에 1.5MW 태양광 발전 설비를 설치하여 운영한 결과, 2017년 동월 대비 관리 비용이 30% 절감된 당월의 전기 요금 120만 원을 지난 6일에 현금으로 납부했다고 밝혔다.
> – ○○신문, 2018년 5월 7일 자 –

① 기부금 ② 임차료 ③ 통신비
④ 소모품비 ⑤ 수도광열비

9. 다음은 ○○(주)의 2017년 이월시산표와 재무상태표 일부이다. (가), (나)의 금액으로 옳은 것은?

이월시산표
2017년 12월 31일

○○(주) (단위: 원)

차 변	원면	계 정 과 목	대 변
300,000	생	현 금	
150,000		단기대여금	
80,000	략	외상매출금	
70,000		이 월 상 품	
		단기차입금	40,000
		외상매입금	60,000
		지 급 어 음	30,000

재무상태표
2017년 12월 31일 현재

○○(주) (단위: 원)

과 목	당기
⋮	⋮
단기투자자산	(가)
⋮	⋮
매입채무	(나)

	(가)	(나)
①	₩150,000	₩60,000
②	₩150,000	₩90,000
③	₩230,000	₩130,000
④	₩450,000	₩60,000
⑤	₩450,000	₩90,000

10. 다음은 ○○(주)의 [거래]와 [감가상각 관련 자료]이다. 2018년 1월 1일 거래를 회계 처리한 결과 유형자산처분손익을 계산한 금액으로 옳은 것은? (단, 회계기간은 매년 1월 1일부터 12월 31일까지이고, 제시된 자료 외의 것은 고려하지 않는다.) [3점]

[거래]

2017년 1월 1일 본사 건물을 ₩10,000,000에 구입하고 취득세 ₩600,000 및 중개수수료 ₩400,000과 함께 당좌수표를 발행하여 지급하다.
2017년 12월 31일 위 건물에 대하여 감가상각을 하다.
2018년 1월 1일 위 건물을 ₩9,500,000에 처분하고 대금은 현금으로 받다.

[감가상각 관련 자료]

- 내용연수: 5년
- 잔존가치: ₩1,000,000
- 감가상각 방법: 건물의 내용연수에 걸쳐 매 회계연도 감가상각액을 균등하게 상각하는 방법

① 이익 ₩500,000 ② 손실 ₩500,000
③ 이익 ₩700,000 ④ 손실 ₩700,000
⑤ 손실 ₩1,500,000

11. 다음 ○○(주)의 사내 게시판에 나타난 거래 내용을 실행하여 분개하였을 때 차변 계정과목으로 옳은 것은?

10월 소식

축하합니다!
본사 영업부 사원 김△△가 지난 28일 둘째 아이를 출산하였습니다. 이에 당사 복지 규정에 의해 출산 장려금 50만 원을 현금으로 지급하겠습니다.

2018. 10. 31.
○○(주) 대표이사

① 접대비 ② 광고선전비 ③ 복리후생비
④ 세금과공과 ⑤ 여비교통비

12. 다음은 기업의 경영 활동에서 발생한 거래에 대한 분석 내용이다. 이를 모두 충족하는 거래로 옳은 것은?

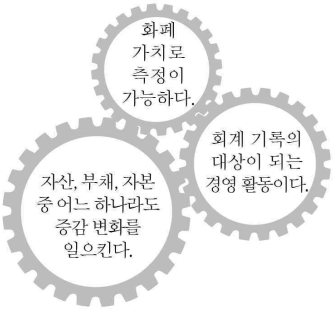

① 현금 ₩100,000을 분실하다.
② 상품 ₩200,000을 매입하기로 하고 거래처에 주문하다.
③ 소유하고 있는 건물 ₩10,000,000을 근저당으로 설정하다.
④ 업무용 창고를 월세 ₩500,000의 조건으로 임차 계약을 하다.
⑤ 매월 ₩2,000,000의 급여를 지급하기로 하고 종업원을 채용하다.

13. 다음은 비유동자산에 속하는 계정과목을 분류하는 과정이다. (가), (나)에 들어갈 계정과목으로 적절한 것은? (단, 기타비유동자산은 고려하지 않는다.) [3점]

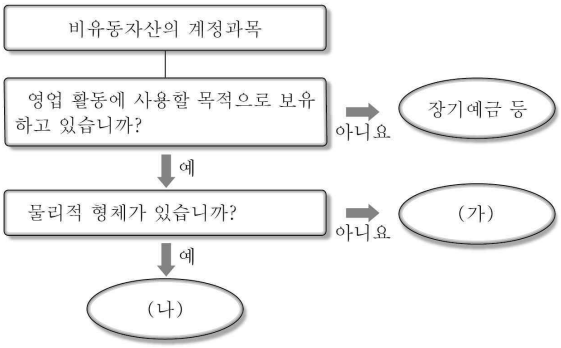

	(가)	(나)
①	비품	토지
②	비품	투자부동산
③	영업권	토지
④	영업권	장기대여금
⑤	투자부동산	토지

14. 다음은 ○○(주)의 2017년 수정 전 잔액시산표와 [결산 정리 사항] 및 손익계산서 일부이다. (가)의 금액으로 옳은 것은? (단, 수정 전 잔액시산표의 대손충당금 ₩10,000은 외상매출금에 대한 것이고, 당기 중의 대손 관련 거래는 없으며, 제시된 자료 외의 것은 고려하지 않는다.) [3점]

잔액시산표(수정 전)
2017년 12월 31일

○○(주) (단위: 원)

차 변	원면	계 정 과 목	대 변
2,000,000	생 략	외상매출금	
		대손충당금	10,000

[결산 정리 사항]
12월 31일 결산 시 외상매출금 기말 잔액에 대하여 2%의 대손을 추산하다.

손익계산서
2017년 1월 1일부터 2017년 12월 31일까지

○○(주) (단위: 원)

과 목	당기
판매비와관리비	×××
대손상각비	(가)

① ₩10,000 ② ₩20,000 ③ ₩30,000
④ ₩40,000 ⑤ ₩50,000

15. 다음은 ○○(주)의 [사채 관련 자료]이다. 이를 통해 알 수 있는 내용으로 옳은 것만을 <보기>에서 있는 대로 고른 것은? (단, 회계기간은 매년 1월 1일부터 12월 31일까지이고, 제시된 자료 외의 것은 고려하지 않는다.) [3점]

[사채 관련 자료]
- 발행일: 2017년 1월 1일
- 만기일: 2019년 12월 31일
- 액면금액: ₩1,000,000
- 발행 금액: ₩907,130
- 액면이자율: 연 10%
- 사채에 대한 이자는 매년 12월 31일에 현금으로 지급한다.
- 사채의 상환 방법은 만기 상환이고, 사채발행비는 없다.

〈 보 기 〉
ㄱ. 사채의 액면이자율이 유효이자율보다 낮다.
ㄴ. 2017년 결산 시 손익 계정에 대체되는 이자비용은 ₩100,000이다.
ㄷ. 만기일에 상환해야 할 사채 금액은 ₩907,130이다.

① ㄱ ② ㄴ ③ ㄱ, ㄷ
④ ㄴ, ㄷ ⑤ ㄱ, ㄴ, ㄷ

16. 다음은 ○○(주)의 회계 처리 오류 사례이다. 이를 정정하지 않을 경우 당기의 재무제표에 미치는 영향으로 옳은 것은? (단, 제시된 자료 외의 것은 고려하지 않는다.) [3점]

> 당기에 연구 개발을 위해 지출된 금액 ₩4,000,000은 개별적으로 식별이 불가능하고 미래 경제적 효익이 불가능하며 경상적인 지출에 해당하므로 '경상개발비'로 회계 처리하여야 하나, 이를 '개발비'로 잘못 회계 처리하였다.

① 유형자산이 ₩4,000,000 과대 계상된다.
② 무형자산이 ₩4,000,000 과소 계상된다.
③ 매출원가가 ₩4,000,000 과대 계상된다.
④ 영업외비용이 ₩4,000,000 과소 계상된다.
⑤ 판매비와관리비가 ₩4,000,000 과소 계상된다.

〔17 ~ 18〕 다음은 ○○(주)의 2017년 주식 취득과 처분 및 평가와 관련된 내용이다. 물음에 답하시오. (단, 회계기간은 매년 1월 1일부터 12월 31일까지이고, 제시된 자료 외의 것은 고려하지 않는다.)

취득 (7월 3일)
○○(주)는 매수와 매도가 적극적이고 빈번하게 이루어지는 주식을 단기간 매매차익을 목적으로 아래와 같이 취득함.
- 취득 수량: 100주
- 1주당 액면금액: ₩5,000
- 1주당 취득 금액: ₩6,000(현금 지급)

처분 (10월 10일)
- 처분 수량: 50주
- 1주당 처분 금액: ₩8,000(현금 수령)

평가 (12월 31일)
- 1주당 공정가치: ₩7,000

17. 위 자료에서 ○○(주)가 취득 시의 거래 내용을 분개할 때 차변 계정과목이 속하는 자산 분류 항목으로 옳은 것은?
① 투자자산 ② 유형자산 ③ 무형자산
④ 당좌자산 ⑤ 재고자산

18. 위 자료를 모두 회계 처리한 결과가 재무제표 항목에 미치는 영향에 대한 설명으로 옳은 것만을 <보기>에서 있는 대로 고른 것은? [3점]

〈보 기〉
ㄱ. 영업외수익이 ₩250,000 증가한다.
ㄴ. 당기순이익이 ₩150,000 증가한다.
ㄷ. 기타포괄손익누계액이 ₩50,000 증가한다.

① ㄱ ② ㄴ ③ ㄱ, ㄷ
④ ㄴ, ㄷ ⑤ ㄱ, ㄴ, ㄷ

19. 다음은 ○○(주)의 증자와 관련된 이사회 회의록과 이를 실행하여 기입한 분개장 일부이다. 자본잉여금 증감액으로 옳은 것은? (단, 제시된 자료 외의 것은 고려하지 않는다.) [3점]

이사회 회의록

내용	사업 확장에 필요한 자금을 아래와 같이 신주를 발행하여 조달하기로 결의함. 가. 발행 주식 수: 100주 나. 액면금액: 1주당 ₩5,000 다. 발행 금액: 1주당 ₩8,000 라. 납입금: 전액 당좌예입

분 개 장

날짜		적 요	원면	차 변	대 변
10	20	(×××) 제 좌	생	800,000	
		(×××)	략		500,000
		(×××)			300,000
		신주 발행			

① ₩300,000 감소 ② ₩300,000 증가 ③ ₩500,000 감소
④ ₩500,000 증가 ⑤ ₩800,000 증가

20. 다음은 갑 상품만을 취급하고 있는 ○○(주)의 2017년 상품재고장과 [상품 관련 자료]이다. 이를 통해 당기의 매출원가를 계산한 금액으로 옳은 것은? (단, 회계기간은 매년 1월 1일부터 12월 31일까지이고, 제시된 자료 외의 것은 고려하지 않는다.) [3점]

상품재고장
품명: 갑 상품
(선입선출법) (단위: 개, 원)

날짜		적요	인수			인도			잔액		
			수량	단가	금액	수량	단가	금액	수량	단가	금액
1	1	전월이월	50	2,000	100,000				50	2,000	100,000

[상품 관련 자료]
- 총매입액: ₩1,050,000
- 환출액: ₩50,000
- 기말 상품 장부 재고: 30개(매입 원가 @₩3,000)
- 기말 상품 순실현가능가치: @₩2,500

① ₩1,000,000 ② ₩1,010,000 ③ ₩1,015,000
④ ₩1,020,000 ⑤ ₩1,025,000

※ 확인 사항
답안지의 해당란에 필요한 내용을 정확히 기입(표기)했는지 확인하시오.